CE1

Lundi 15 juin

1) Ils ont organisé une bataille de boules de neige.
2) Elles vont s'écraser contre le tronc de l'arbre.
3) C'est un écureuil.
4) L'écureuil est furieux car Gafi et ses amis ont réveillé toute sa famille.
5)

les noms féminins	les noms masculins
une bataille	un écureuil
une oreille	un réveil
une coquille	un conseil
une famille	un fauteuil
une feuille	

$$\begin{array}{r} 24 \\ \times\ 3 \\ \hline 72 \end{array} \quad (1) \qquad \begin{array}{r} 56 \\ \times\ 3 \\ \hline 168 \end{array} \quad (1)$$

n°7 p 39 :

500 + 100 + 100 + 100 + 10 + 10 + 10 + 10 + 7 = 847

La directrice a reçu 847 cahiers.

La livraison ne correspond pas à la commande de 857 cahiers.

Cherchons ensemble p 40 :

a) C'est Louise qui a gagné.
b) C'est Théo qui a marqué le moins de points.
c) 693 _ 739 _ 790 _ 793 _ 937

Mardi 16 juin

n° 2 p 75 :

une quille - un collier - la paye -
un coquillage - un caillou - un millefeuille -

n° 1 p 20 :

déterminants et noms au singulier	déterminants et noms au pluriel
la terre	les dinosaures
un poisson	des oiseaux
le soleil	mes coquillages
mon chat	tes livres
cette photo	tes chaussures
l'arbre	ses gants
une fleur	
ta robe	
ton pantalon	
ma montre	

$$\begin{array}{r} 568 \\ -\ 47 \\ \hline 521 \end{array} \qquad \begin{array}{r} 438 \\ -\ 128 \\ \hline 310 \end{array}$$

4) Sur l'étagère du pâtissier, il y a 75 choux à la crème, 36 tartelettes et 12 éclairs. Combien y a-t-il de pâtisseries en tout ?

75 + 36 + 12 = 123

Il y a 123 pâtisseries.



$$\begin{array}{r} {\scriptstyle 1} \\ 75 \\ +\,36 \\ +\,12 \\ \hline 123 \end{array}$$

5) Sur l'étagère du pâtissier, il y a 75 choux à la crème, 36 tartelettes et 12 éclairs. Un client achète 14 tartelettes. Combien reste-t-il de tartelettes ?

36 - 14 = 22

Il reste 22 tartelettes.



$$\begin{array}{r} 36 \\ -\,14 \\ \hline 22 \end{array}$$

6) Ce matin, il y avait 25 voitures sur le parking. 39 voitures sont entrées ce midi pour se garer. Combien de voitures y a-t-il maintenant sur le parking ?

25 + 39 = 64

Il y a 64 voitures sur le parking.



$$\begin{array}{r} {\scriptstyle 1} \\ 25 \\ +\,39 \\ \hline 64 \end{array}$$

Jeudi 18 juin

ardoise : le cerfeuil _ un écureuil _ une rouille _ le sommeil _ une corbeille _ un réveil _

n°5 p 75 :

une corbeille - un réveil - une groseille - un fauteuil - une oreille - un portail - une bataille - du fenouil -

Exercice 1

La vitre a volé en éclats, les enfants se sont sauvés à toute allure. La partie de foot est terminée.

Qu'est-ce qui a cassé la vitre? ..... le ballon .....

Quels sont les mots du texte qui t'ont permis de répondre ?

..... la partie de foot .....

Exercice 2

Il avait, en effet, à la place des yeux, deux gros morceaux de charbon de terre brillant, une carotte en guise de nez et sa bouche était faite d'un vieux râteau, de telle façon qu'on voyait toutes ses dents. Sous le soleil de l'après-midi, il commençait à fondre.

De qui s'agit-il ? .. le bonhomme de neige .....

Quels sont les mots du texte qui t'ont permis de répondre ?

..... charbon pour les yeux, carotte en guise de nez, fondre

n°1 p 89 :

Les rectangles sont : B, D

n°2 p 89 :

Les carrés sont : A, D, F

n°3 p 89 :



n°4 p 89 :

$$\begin{array}{r} 129 \\ \times \quad 3 \\ \hline 387 \end{array} \quad (2) \qquad \begin{array}{r} 208 \\ \times \quad 3 \\ \hline 624 \end{array} \quad (2)$$

Vendredi 19 juin

regarder
je regarderai
tu regarderas
il regardera
nous regarderons
vous regarderez
ils regarderont

n°5 p 51 :

a) Nous chanterons juste.
b) Ils colleront leur exercice.
c) Tu compteras tes billes.
d) Elle dessinera des fées.

Conjugue ces verbes au futur.

Il joueront **jouera** jouerai dehors. (jouer)

Je marcheras marcherez **marcherai** .(marcher)

Nous chanterez **chanterons** chanteront . (chanter)

Ils **rencontreront** rencontrerons . (rencontrer)

Tu trouvera trouverai **trouveras** .(trouver)

Elle changerons **changera** changeront .(changer)

Vous nagerai nagerons **nagerez** . (nager)

Elles dansera **danseront** danserons . (danser)

Les mots invariables (liste 2)

Complète les phrases avec : comment - dehors - derrière - longtemps - jamais

Le car s'arrête ....derrière.... l'école.

Je ne joue ....jamais.... au ballon.

Tu as attendu ....longtemps.... avant de rentrer.

....Dehors.... il pleut.

....Comment.... t'appelles-tu ?

$$\begin{array}{r} 6\,\cancel{7}\,{}^{1}1\;5 \\ -\quad 8\;2 \\ \hline 6\;3\;3 \end{array} \qquad \begin{array}{r} 5\,\cancel{6}\,{}^{1}4\;8 \\ -\quad 9\;5 \\ \hline 5\;5\;3 \end{array}$$

Vendredi 19 juin

81 Lire l'heure (2)

Découvrons ensemble

Observe et **complète**.

Demain, je prends le train à 7 h du soir.

Est-ce le train de 19 h ?

matin

soir



Les heures du soir sont écrites en **bleu** sur cette horloge.

7 h → + 12 h → 19 h

Pour passer de l'heure du matin à l'heure du soir, on ajoute 12 heures.

MATÉRIEL C

Je m'entraîne

1 **Écris** les heures du matin et du soir.

matin 3 h

soir 15 h

matin 8 h

soir 20 h

2 **Écris** les heures du matin et du soir.



matin 4 h 30

soir 16 h 30

matin 10 h 30

soir 22 h 30

3 **Problème**

Quelle heure est-il ?

Il est 22 h.

Quel film Mélissa peut-elle encore voir ce soir ?

Mélissa peut voir le film numéro 3.

C'est samedi soir.

Films	Horaires
1 Fantômes !	18 h 00
2 Les Choupinettes	20 h 00
3 La Fée Zorzine	22 h 00

Le coin du chercheur

Combien d'angles droits comptes-tu dans la figure bleue ?



5

Compétence : Lire les heures du matin et du soir.

Calcul mental : Différence de nombres proches. L'enseignant écrit 21 – 19 = … ; l'élève écrit 2.