Rappel

- Pour savoir si un **angle est droit**, je vérifie avec un **gabarit** ou une **équerre**.

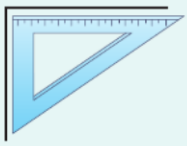

C'est un angle droit.

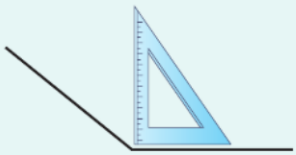

Ce n'est pas un angle droit.

Exercices

Colorie la gommette qui est collée sur l'angle droit de chaque équerre.

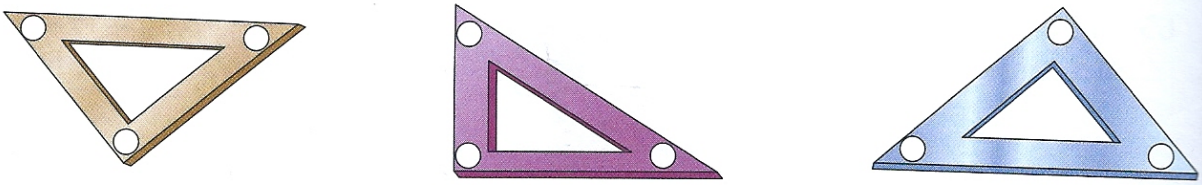

1 **Repère** les angles droits dans chaque figure. **Indique**-les en rouge.

Matériel cartonné

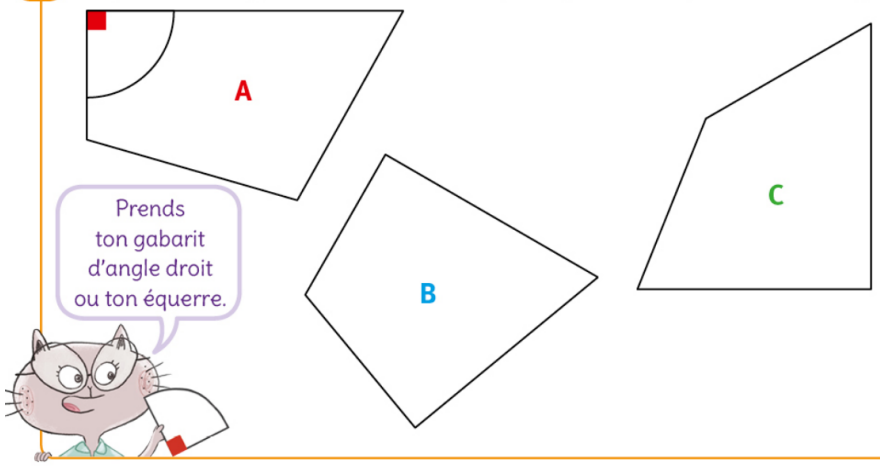

figure	nombre d'angles droits
A	.....
B	.....
C	.....

2 **Trouve** 9 angles droits et **indique**-les en rouge.

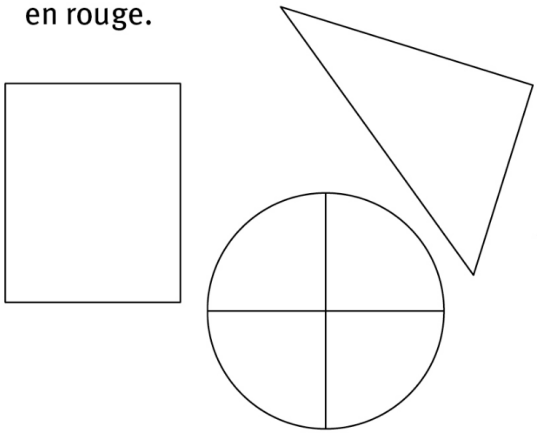

6 Utilise ton gabarit pour trouver les angles droits.